المملكة العربية السعودية
وزارة التعليم
الإدارة العامة للتعليم بمنطقة : .....
المدرسة : .....

تقويم مهارات مادة العلوم

للصف الأول الابتدائي
للفترة الدراسية الثانية ١٤٤٨هـ

الاسم :	الصف :	الدرجة	
			٢٠

١ أختر/ي الإجابة الصحيحة : (درجتان)

(أ) أي الحيوانات التالية يُعهُ من الثدييات؟

① أرنب
② سمكة
③ عصفور

(ب) أي الحيوانات التالية يُعدُ من الحشرات؟

① ضفدع
② سحلية
③ نملة

٢ صل/ي كل حيوان بغطاء جسمم المناسب : (ثلاث درجات)

	الحراشف
	الريش
	الفرو

٣ ضع/ي علامة (✓) أمام ما تحتاج إليه الحيوانات لتعيش : (درجة واحدة)

☐ الماء ☐ الألعاب ☐ الأقلام ☐ الغذاء

٤ أكتب/ي اسم المجموعة التي ينتمي إليها كل حيوان، مستعينا/ة بالكلمات بين القوسين : (درجتان)

(الزواحف – البرمائيات)

 .....

 .....

٥ أختر/ي الإجابة الصحيحة : (درجتان)

(أ) أي جزء من جسم السمكة يساعدها على التنفس في الماء؟

① الأجنحة
② الخياشيم
③ الأرجل



(ب) أي جزء من جسم الطائر يساعده على الطيران؟

① المنقار
② الفم
③ الأجنحة



٦ أختر/ي الإجابة الصحيحة : — درجتان

(أ) يُسمّى المكان الذي يعيش فيه المخلوق الحي :



① الغذاء
ب الموطن
ج الهواء

(ب) أيّ المواطن الآتية تكثر فيه الأشجار ؟



① الصحراء
ب المنطقة العشبية
ج الغابة

٧ صل/ي كل حيوان بموطنه المناسب : — درجتان



الجمل ●



الحمار الوحشي ●

● المنطقة العشبية



● الصحراء



٨ أكمل/ي الفراغ بالكلمة المناسبة : — درجتان

الكلمات :
المحيط
البحيرة

(أ) موطن مائي يحتوي على ماء عذب : .....

(ب) موطن مائي يحتوي على ماء مالح : .....

٩ صنّف/ي المخلوقات الآتية حسب موطنها : — درجتان



حوت



سمكة

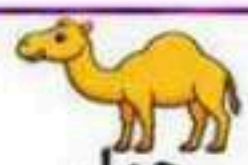

جمل



عصفور

مواطن اليابسة	مواطن الماء
.....	.....
.....	.....

١٠ أكمل/ي الفراغ بالكلمة المناسبة : — درجتان

الكلمات : (الضوء — الغذاء)



(أ) تحصل السمكة على ..... من موطنها المائي.

(ب) تحتاج النباتات المائية إلى ..... لتعيش وتنمو.

المملكة العربية الصعودية
وزارة التعليم
الإدارة العامة للتعليم بمنطقة : .....
المدرسة : .....

تقويم مهارات مادة العلوم

للصف الأول الابتدائي

الفترة الدراسية الثانية ١٤٤٨هـ

الدرجة	
	١٠

الاسم : .....

الصف : .....

١ أختر/ي الإجابة الصحيحة : (درجة واحدة)

أيّ الحيوانات الأتية يُعدّ من التدييات؟

أ عصفور | ب أرنب | ج سمكة

٢ أكمل/ي الفراغ بالكلمة المناسبة : (درجة واحدة)

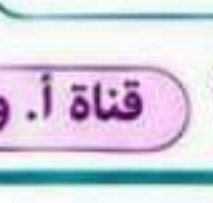

يغطي جسم الطائر .....

الكلمات : (الريش - الحراشف - الفرو)

٣ ضع/ي علامة (✓) أمام ما تحتاج إليه الحيوانات لتعيش : (درجة واحدة)

☐ الماء 

☐ الألعاب 

٤ صنفي الحيوانين الأتيين حسب مجموعتهما : (درجة واحدة)



نملة .....



ضفدع .....

الكلمات : (التدييات - البرمائيات - الحشرات)

٥ أختر/ي الجزء الذي يساعد السمكة على التنفس في الماء : (درجة واحدة)



أ العين

ب الزعانف

ج الخياشيم

٦ أختر/ي الإجابة الصحيحة : (درجة واحدة)

أيّ المواطن الأتية تكثر فيه الأعشاب؟



أ المنطقة العشبية | ب الصحراء | ج الغابة

٧ أكمل/ي الفراغ بالكلمة المناسبة : (درجة واحدة)



موطن مائي يحتوي على ماء مالح هو .....

الكلمات : (البحيرة - المحيط)

٨ ضع/ي علامة (✓) أمام العبارة الصحيحة : (درجة واحدة)

☐ تعيش جميع الحيوانات في الماء.

☐ تعيش الحيوانات في مواطن مختلفة.

٩ صنف/ي الحيوانين الأتيين حسب موطنهما : (درجة واحدة)



جمل .....



حوت .....

الكلمات : (موطن مائي - موطن يابس)

١٠ أكمل/ي الفراغ بالكلمة المناسبة : (درجة واحدة)



تحتاج النباتات المائية إلى ..... لتعيش وتنمو.

الكلمات : (الضوء - الغذاء)

المملكة العربية السعودية

مدرسة

المادة: العلوم
الصف: الأول الابتدائي
الزمن: ٤٥ دقيقة
الفترة: الفصل الدراسي الأول

اختبار الفترة الثانية

اسم الطالب		رقم الجلوس		الدرجة	من ٢٠

السؤال الأول: اختر الإجابة الصحيحة: — ١٠ درجات

١- ما هو الغطاء الذي يغطي أجسام الثدييات؟

(أ) الريش | (ب) القشور | (ج) الشعر أو الفرو | (د) الحراشف

٢- أي الحيوانات التالية يُعد من الطيور ولكنه لا يطير؟

(أ) الحمامة | (ب) النعامة | (ج) الخفاش | (د) الصقر

٣- أي جزء من الجسم يساعد الطيور على الطيران للبحث عن الطعام؟

(أ) الخياشيم | (ب) الزعانف | (ج) الأجنحة | (د) المخالب

٤- ما الفائدة التي توفرها المنطقة العشبية للحيوانات لتبقى آمنة؟

(أ) تسبح فيها | (ب) تطير فوقها | (ج) تختبئ فيها | (د) تتسلق عليها

٥- أي الحيوانات التالية يعيش في المحيط وله جلد سميك يبقيه دافئاً؟

(أ) مالك الحزين | (ب) الضفدع | (ج) الدلفين | (د) الإوز

السؤال الثاني: ضع علامة (صح) أو (خطأ): — ١٠ درجات

#	العبارة	الإجابة
١	الثدييات هي حيوانات تلد وتعتني بصغارها.	( )
٢	تحتاج الحيوانات إلى الطعام والماء والهواء والمأوى لكي تعيش.	( )
٣	آكلات اللحوم هي حيوانات تأكل النباتات فقط.	( )
٤	الصحراء موطن يتميز بكثرة الأمطار والبرودة الشديدة.	( )
٥	يعيش طائر مالك الحزين بالقرب من البحيرة ويحصل على طعامه منها.	( )

نموذج الاجابة

المادة: العلوم
الصف: الأول الابتدائي
الزمن: ٤٥ دقيقة
الفترة: الفصل الدراسي الأول

اختبار الفترة الثانية

اسم الطالب		رقم الجلوس		الدرجة	من ٢٠

السؤال الأول: اختر الإجابة الصحيحة:				١٠ درجات
١- ما هو الغطاء الذي يغطي أجسام الثدييات؟				
(أ) الريش	(ب) القشور	(ج) الشعر أو الفرو	(د) الحراشف	
٢- أي الحيوانات التالية يُعد من الطيور ولكنه لا يطير؟				
(أ) الحمامة	(ب) النعامة	(ج) الخفاش	(د) الصقر	
٣- أي جزء من الجسم يساعد الطيور على الطيران للبحث عن الطعام؟				
(أ) الخياشيم	(ب) الزعانف	(ج) الأجنحة	(د) المخالب	
٤- ما الفائدة التي توفرها المنطقة العشبية للحيوانات لتبقى آمنة؟				
(أ) تسبح فيها	(ب) تطير فوقها	(ج) تختبئ فيها	(د) تتسلق عليها	
٥- أي الحيوانات التالية يعيش في المحيط وله جلد سميك يبقيه دافئاً؟				
(أ) مالك الحزين	(ب) الضفدع	(ج) الدلفين	(د) الإوز	

السؤال الثاني: ضع علامة (صح) أو (خطأ):		١٠ درجات
#	العبارة	الإجابة
١	الثدييات هي حيوانات تلد وتعتني بصغارها.	(✔)
٢	تحتاج الحيوانات إلى الطعام والماء والهواء والمأوى لكي تعيش.	(✔)
٣	أكلات اللحوم هي حيوانات تأكل النباتات فقط.	(✘)
٤	الصحراء موطن يتميز بكثرة الأمطار والبرودة الشديدة.	(✘)
٥	يعيش طائر مالك الحزين بالقرب من البحيرة ويحصل على طعامه منها.	(✔)